Ceist 5 **(10 nóiméad an t-uasmhéid ama a mholtar)**

Taispeánann an léaráid thíos torthaí suirbhé ar dhaoine fásta maidir le cé chomh minic in aghaidh an lae a dhéanann siad seiceáil ar a gcuntais meán sóisialta.
Ní thaispeántar na torthaí le haghaidh WhatsApp.

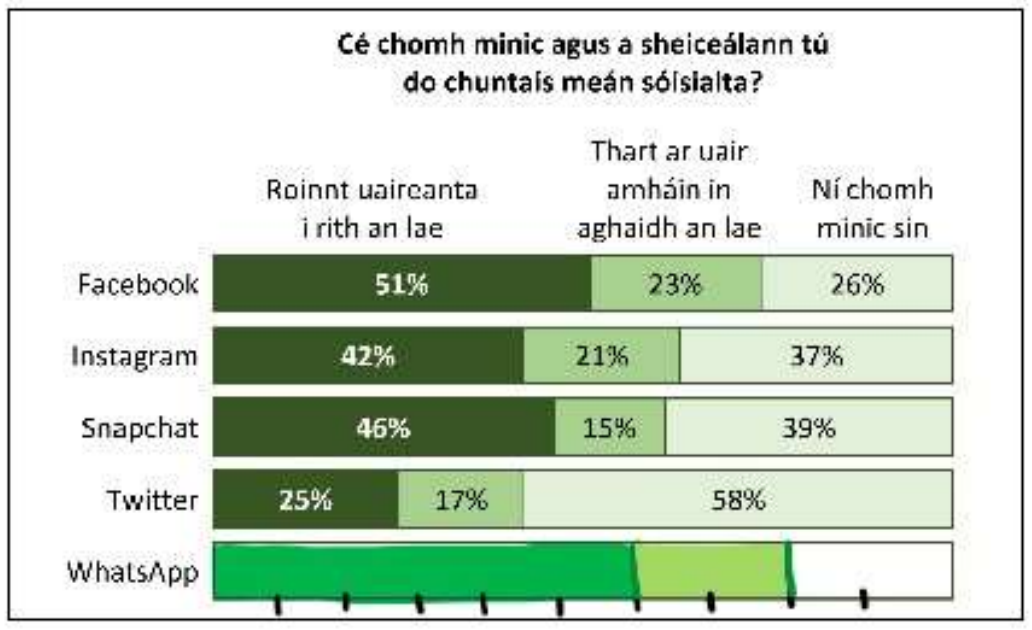

10%

(a) Bain úsáid as an léaráid chun an dá cheist seo a leanas a fhreagairt.
I ngach cás, ná cuir tic (✓) ach sa bhosca ceart.

(i) An céatadán a rinne seiceáil ar a gcuntas *Instagram* thart ar uair amháin in aghaidh an lae ná:

15%	21%	37%	51%
☐	☑	☐	☐

(ii) An cuntas a ndearna $\frac{1}{4}$ go díreach de na húsáideoirí seiceáil air roinnt uaireanta in aghaidh an lae ná:

$\frac{1}{4} = 25\%$

Facebook	Instagram	Snapchat	Twitter
☐	☐	☐	☑

(b) Taispeántar na torthaí le haghaidh WhatsApp sa tábla thíos.
Bain úsáid as na luachanna sa tábla chun an léaráid thuas a chomhlánú.
B'fhéidir go mbeadh sé ina chabhair rialóir a úsáid. Ní gá duit an léaráid a scáthú.

Torthaí le haghaidh WhatsApp	
Roinnt uaireanta i rith an lae:	60%
Thart ar uair amháin in aghaidh an lae:	20%
Ní chomh minic sin:	20%

(c) Tá fón póca ag Eoin.
D’íoc sé €80 nuair a cheannaigh sé an fón, i dtosach mhí an Mheithimh.
D’íoc sé €25 ag tús gach míosa ina dhiaidh sin.

Cé acu ceann de na graif thíos, **A** nó **B**, is fearr a thaispeánann an tslí inar caitheadh Eoin an t-airgead i rith na chéad 8 mí? Tabhair cúis le do fhreagra.

Graf A	**Graf B**
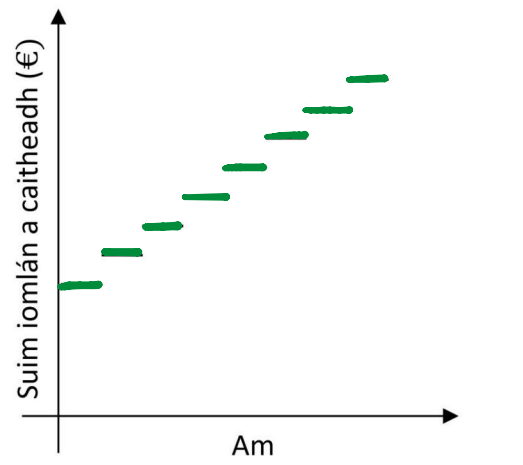	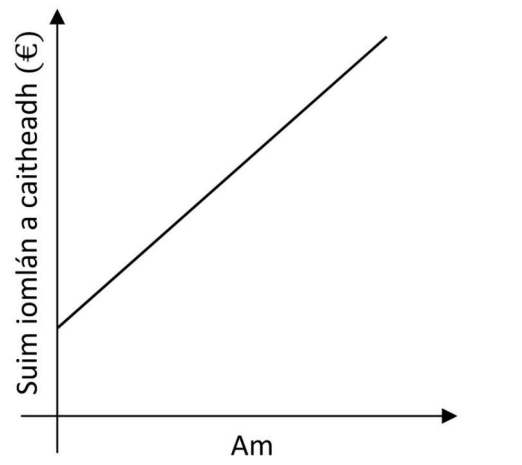

Freagra: **Graf A** ☑ **Graf B** ☐

(Cuir tic (✓) i mbosca **amháin**)

Cúis:

Bhī sē īoctha i bpīosaī, nī go leanūnach. Beidh Graf A a ceann is fearr.